Школьный этап Всероссийской олимпиады школьников 2019 – 2020 учебный год
Искусство (МХК) 7-8 классы

МХК-7-01

Задание 1

Даны 3 изображения памятников искусства.
Напишите:

1. названия изображенных на иллюстрациях памятников искусства,
2. к какой стране, и к какой культуре они относятся,
3. время их создания,
4. где они находятся в настоящее время.

39б

		
1	**2**	**3**

Ответ:

2 — 1. Сфинкс 2 2. ~~Египет~~, Древний Египет. 2 4. Египет.	1. Мона Лиза 2 3. автор картины - Леонардо да Винчи	1. Колизей 2 2. Древняя Греция 4. Греция –
6б *до 12 баллов*	2б *до 12 баллов*	2 *до 10 баллов*

10б

За задание 1: 34 балла

Школьный этап Всероссийской олимпиады школьников 2019 – 2020 учебный год
Искусство (МХК) 7-8 классы

Задание 2

Рассмотрите художественное произведение. Отвечая на вопросы, заполните таблицу.

1. Произведение какого жанра перед вами?
2. Назовите особенности этого жанра.
3. Опишите это произведение, его эмоциональную окраску и средства выразительности.

1.	**Жанр**	*2 балла*
2.	**Особенности жанра**	3. Перед моей репродукция картины, на ней изображена девушка в белом одежде. Смотря на эту картину, я чувствую спокойствие, тишину... На заднем плане - природа, лес, что также показывает картину. Картина написана в тёпло-жёлтых, тёмно-зелёных, голубых тонах. *по 1 баллу за каждую правильно названную особенность; до 10 баллов*

3.	**Описание произведения, его эмоциональной окраски и средств выразительности**	На картине изображена девушка в белом одеянии. На заднем плане лес, природа. Смотря на картину создаётся ощущение лёгкости картины, спокойствия и тишины. Картина написана в тёмно-зелёных, тёмно-жёлтых (охра), тёмно-коричневых, белых тонах. Смотря на картину, не создаётся ощущение времени "крепостного права", войны и т.д. Скорее это мирное время, ~~во время~~ когда барышня из светской семьи решила прогуляться... *по 2 балла за каждое правильное описание, характеристику; до 20 баллов*

14б

За задание 2: 32 балла

Школьный этап Всероссийской олимпиады школьников 2019 – 2020 учебный год
Искусство (МХК) 7-8 классы

Задание 3

Даны архитектурные памятники.
Их можно разбить на группы.
Сгруппируйте архитектурные памятники и дайте название каждой группе.

		
1	**2**	**3**
		
4	**5**	**6**

		
7	**8**	**9**
		
10	**11**	**12**

Архитектурные сооружения	Название группы
1. 3, 4, 8, 12	Церкви
2. 2, 6, 7, 11	Памятники культуры
3. 1, 5, 9, 10	Храмы

по 1 баллу за каждое правильно отнесённое к группе архитектурное сооружение;
по 2 балла за правильное определение группы, итого до 18 баллов

За задание 3: 18 баллов

Школьный этап Всероссийской олимпиады школьников 2019 – 2020 учебный год
Искусство (МХК) 7-8 классы

Задание 4

Определите **ЛИШНЕЕ** в ряду.
Кратко поясните свой выбор.
Заполните таблицу.

1. Зевс, Гера, Аид, Юпитер, Деметра, Аполлон.
2. Альт, арфа, гобой, виолончель, контрабас.
3. Микеланджело, Рафаэль, Леонардо да Винчи, Сандро Боттичелли, Никола Пуссен.

Номер ряда	Лишнее слово	Краткое обоснование выбора
1.	Юпитер 2	Юпитер - планета солнечной системы, а всё остальное - имена древнегреческих богов. 1
2.	Альт –	Всё кроме слова „Альт", музыкальные инструменты
3.	Рафаэль –	Всё остальное - имена художников (писатель картин)

по 2 балла за каждое правильно выбранное лишнее имя или слово;
по 2 балла за правильное обоснование выбора, итого до 12 баллов

3б

За задание 4: 12 баллов

Максимальное количество баллов – 96 (39 б)